L'OROLOGIO

Ciao! Ti lasciamo il link per costruire l'orologio, nel caso in cui tu non sia ancora riuscito/a.

↓ ↓ ↓ ↓ ↓ ↓ ↓ ↓ ↓ ↓ ↓ ↓ ↓ ↓

https://drive.google.com/file/d/1Tl8fHsTtM5NgzfBFLQleBTa07UHnL2rH/view?usp=sharing

Le prime domande sono un ripassino che ormai ti serve ogni volta, come se fossimo in classe e avessimo la possibilità di maneggiare il nostro orologione da muro.
Ogni volta che avevi bisogno di sapere l'ora, prima di chiederlo ad altri… hai provato a capirlo tu? ……

Hai osservato le lancette? Stavolta scrivi tu le risposte:

- ★ In che direzione si muovono?
  - ✣ In senso orario
  - ✣ In senso antiorario
- ★ Quante sono? ……
- ★ Le hai riconosciute tutte? Quali sono? ……
- ★ Per ottenere i minuti, devi sapere benissimo…
  - ✣ La tabellina del 2
  - ✣ La tabellina del 5
  - ✣ La tabellina del 12
- ★ Quale lancetta è più veloce?
- ★ La lancetta delle ore
- ★ La lancetta dei minuti
- ★ Quanto tempo impiega la lancetta dei minuti a compiere un giro intero (parte e ritorna sul 12)?
  - ✣ 24 ore, cioè una giornata
  - ✣ 60 minuti, cioè un'ora
  - ✣ 60 secondi, cioè un minuto
- ★ Quando la lancetta dei minuti compie un giro intero (parte e ritorna sul 12), di quanto si sposta la lancetta delle ore?
  - ✣ di una tacca
  - ✣ di 12 tacche

Come sta andando? Hai difficoltà?
……

Riguarda questo video con molta attenzione, poi ricomincia ad esercitarti.

↓ ↓ ↓ ↓ ↓ ↓ ↓

https://youtu.be/ihENHaRIGh0



ORA ESERCITATI CON QUESTI GIOCHI ONLINE:

https://wordwall.net/resource/873131/le-parti-dellorologio

https://wordwall.net/resource/873112/orologio

https://wordwall.net/resource/875716/impariamo-lorologio

Che ore sono?

Ricrea sul tuo orologio di carta le ore e i minuti degli orologi qui sotto, abbiamo mescolato orologi digitali con orologi analogici, e poi scrivi l'ora esatta come nell'esempio.

In questo caso trasformo l'orologio digitale in orologio analogico e disegno le lancette.

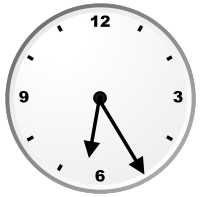

In questo caso guardo per prima la lancetta delle ore (sull'1) e poi quella dei minuti (sul 3).

01:15

Prova tu!
Scrivi le ore e poi gli orari negli orologi della pagina successiva.

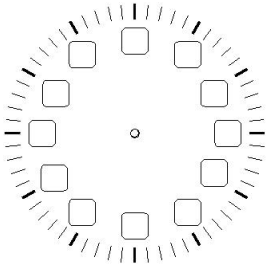



06:30
am
alarm





4:00





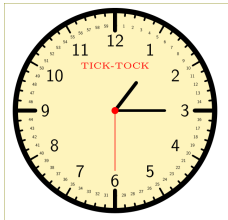
TICK-TOCK

1:00





1:20

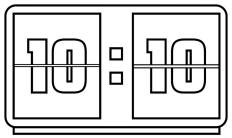
10:10





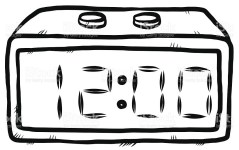
12:00

15 00